ОЛІМПУС

ІСТОРІЯ
ЗИМОВА СЕСІЯ
2020

10

10 КЛАС

1. Коли було створено першу бактеріологічну станцію в Російській імперії?

◯А) у 1886 р. ◯Б) у 1887 р.
◯В) у 1888 р. ◯Г) у 1890 р.

2. Напрям у мистецтві, якому притаманні раціоналізм і функціональність індустріалізації, індивідуалізм, прагнення підкреслити національні мотиви та традиції ...

◯А) раціоналізм ◯Б) романтизм
◯В) класицизм ◯Г) модернізм

3. Керівником якої партії був напередодні Першої світової війни діяч, зображений на світлині?

◯А) Русько-Української робітничої партії
◯Б) Революційної Української партії
◯В) Української національно-демократичної партії
◯Г) Української соціал-демократичної партії

4. Яка держава у вересні 1915 р. приєдналася до блоку Центральних держав?

◯А) Туреччина ◯Б) Греція
◯В) Болгарія ◯Г) Югославія

5. Із якого документа взято ці рядки „Історичний ворог України не може спокійно дивитися, що не вся Україна в його руках, що не весь український народ стогне поневолений під його пануванням ... Перемога австро-угорської монархії буде нашою перемогою. І що більшою буде поразка Росії, то швидше буде визволення України”?

◯А) „Нашої платформи” СВУ
◯Б) „Маніфесту” ГУР
◯В) „Універсалу” УЦР
◯Г) „Звернення до братів-українців” УХДП

6. Біля якого міста відбулася битва, яка увійшла в історію як „тріумф танків”?

◯А) Амстердама ◯Б) Парижа
◯В) Комбре ◯Г) Іпра

7. Що у роки Першої світової війни у народі називали „Українською Голгофою”?

◯А) концтабір у Суздалі
◯Б) табір у Биківні
◯В) Соловки
◯Г) концтабір у Талергофі

8. З якими подіями Української революції пов’язана будівля, зображена на світлині?

◯А) тут відбулося проголошення гетьманом Павла Скоропадського
◯Б) у цій будівлі проводилися засідання УЦР
◯В) тут працював уряд – Народний Секретаріат
◯Г) у цій будівлі було підписано договір з Четверним союзом.

9. Виберіть визначення, яке найбільш підходить поняттю „Демілітаризована зона”.

◯А) умовна, тимчасова лінія між воюючими державами на час перемир'я або перед підписанням угоди про мир між ними
◯Б) визначена міжнародною угодою територія, де заборонено тримати війська, озброєння, зберігати старі та споруджувати нові укріплення й військово-промислові підприємства
◯В) лінія, що розділяє на зони окупації територію переможеної країни
◯Г) в міжнародному праві певний географічний район, в якому забороняється підготовка військових дій і який не може бути використаний як театр військових дій

10. Про який документ згадує В. Винниченко у своїх спогадах *„Тепер, нарешті, ми могли творити життя по нашому образу й подобію, і тільки по нашому.Тепер ми мали всі засоби для того. Усі державні апарати переходили до рук Генерального Секретаріату… Усе населення, уся демократія України дивилися на український уряд з надією і вірою”?*

◯А) Перший Універсал УЦР
◯Б) Тимчасову інструкцію Тимчасового Уряду
◯В) Третій Універсал УЦР
◯Г) Декларацію про об’єднання УНР та ЗУНР

11. Яка держава після Першої світової війни втратила вихід до Егейського моря?

◯А) Угорщина ◯Б) Греція
◯В) Чехословаччина ◯Г) Болгарія

12. Подія, зображена на малюнку, відбулася у ...



◯А) Лондоні
◯Б) Версалі
◯В) Сан-Франциско
◯Г) Фландрії

Охороняється законом про авторське право
© Olimpus, www.olimpus.ua

13. За яким договором повоєнного облаштування світу визнавалась незалежність Туреччини та поверталися їй території, передані раніше Греції та Вірменії ?

◯А) Сен-Жерменським ◯Б) Тріанонським
◯В) Лозаннським ◯Г) Севрським

14. Головну українську раду створили у ...

◯А) червні 1914 р. ◯Б) липні 1914 р.
◯В) серпні 1914 р. ◯Г) вересні 1914 р.

15. Кому із Президентів США належить вислів „Справа Америки – бізнес”?

◯А) Воррену Гардінгу ◯Б) Кельвіну Куліджу
◯В) Гербарту Гуверу ◯Г) Франкліну Делано Рузвельту

16. Зображений на фотодокументі політичний діяч ...



◯А) очолював коаліційний уряд лібералів і консерваторів у Великій Британії
◯Б) розробив план раптового нападу Німеччини на противника та швидкого захоплення його території
◯В) очолював австро-угорські війська у Галицькій битві
◯Г) головував на Паризькій мирній конференції

17. У якому місті відбувся Всекримський мусульманський з’їзд у 1917 р.?

◯А) Севастополі ◯Б) Феодосії
◯В) Керчі ◯Г) Сімферополі

18. З якими подіями в історії кримськотатарського народу пов'язаний діяч, зображений на світлині?



◯А) уклав союз з Антантою
◯Б) очолив національний уряд
◯В) підписав угоду з радянською Росією
◯Г) спільно з білогвардійцями воював проти більшовиків на території Криму у 1920 р.

19. Який уряд очолював Стенлі Болдуїн у Великій Британії?

◯А) лібералів ◯Б) лейбористів
◯В) демократів ◯Г) консерваторів

20. Коли розпочав роботу Всеукраїнський з’їзд рад у Києві?

◯А) 4 грудня 1917 р. ◯Б) 12 грудня 1917 р.
◯В) 17 грудня 1917 р. ◯Г) 19 грудня 1917 р.

21. Коаліція, яка проголосила у передвиборчій програмі гасло „Єднання, праця, солідарність між класами, економічний лібералізм, умиротворення економічних суперечок”, прийшла до влади у Франції у 1919 р. та увійшла в історію як ...

◯А) „Французька солідарність”
◯Б) „Державна єдність”
◯В) „Національне єднання”
◯Г) „Національний блок”

22. Про які події командир українських частин А. Гончаренко залишив свої спогади у звіті: „червоні ... раннім ранком ... ідуть ... ніби на парад, занедбавши найпримітивніші засоби безпеки ... ми їх привітали сильним вогнем 4 сотень і 16 кулеметів ... Наступні частини наступали вже за всіма правилами військової техніки ... зайняли фронтову лінію, вздовж 5 км.”?

◯А) захоплення більшовиками Харкова
◯Б) бій під Крутами
◯В) бій під Базаром
◯Г) захоплення більшовиками Києва

23. Коли італійські сили захопили порт Фіуме?

◯А) у 1921 р. ◯Б) у 1922 р.
◯В) у 1923 р. ◯Г) у 1924 р.

24. Ватикан та Італійське королівство як суверенні держави виникли внаслідок угоди між Муссоліні та Папою Римським, яка називалася:

◯А) „Великий пакт” ◯Б) „Латеранський конкордат”
◯В) „Велика місія” ◯Г) „Корпоративний союз”

25. Хто очолював Запорозьку дивізію, яка успішно вела боротьбу проти більшовиків на території Кримського півострова у квітні 1918 р.?

◯А) Петро Болбочан ◯Б) Євген Коновалець
◯В) Симон Петлюра ◯Г) Павло Скоропадський

26. На які верстви населення спиралася Директорія?

◯А) на інтелігенцію
◯Б) на військовослужбовців
◯В) на землевласників та підприємців
◯Г) на робітників та селян

27. Яку подію ілюструє подана світлина?

◯А) „Пивний путч” у Німеччині
◯Б) „Похід на Рим” фашистів
◯В) „Підписання перемир’я” у Комп’єнському лісі
◯Г) „Капітуляція” Австро-Угорщини

28. До якого міста переїхали владні інституції ЗУНР після захоплення Львова поляками у листопаді 1918 р.?

◯А) Галича ◯Б) Тернополя
◯В) Станіславова ◯Г) Ужгорода

29. Кому належать ці рядки: „Перестріляти противників простіше, ніж перемогти їх на виборах, проте у цьому разі гарантією нашої влади стане сама їхня конституція”?

◯А) Володимиру Леніну ◯Б) Беніто Муссоліні
◯В) Адольфу Гітлеру ◯Г) Йосипу Сталіну

30. Встановіть відповідність між діячами культури та галузями, у яких вони працювали.

1. М. Леонтович	А. театр
2. В. Вернадський	Б. музика
3. Л. Курбас	В. мовознавство
4. А. Кримський	Г. образотворче мистецтво
5. Г. Нарбут	

◯А) 1 - А; 2 - Б; 3 - В; 4 - Г
◯Б) 1 - Б; 2 - А; 3 - Г; 5 - В
◯В) 1 - Б; 3 - А; 4 - В; 5 - Г
◯Г) 2 - Б; 3 - В; 4 - Г; 5 - А

Охороняється законом про авторське право
© Olimpus, www.olimpus.ua